الجمهورية الجزائرية الديمقراطية الشعبية

وزارة التربية الوطنية — الديوان الوطني للامتحانات والمسابقات

امتحان بكالوريا التعليم الثانوي — دورة: جوان 2012

الشعبة: آداب وفلسفة

اختبار في مادة: التاريخ والجغرافيا — المدة: 4 ساعات ونصف

على المترشح أن يختار أحد الموضوعين التاليين

الموضـــــوع الأول

التاريـــــخ

الجزء الأول: (06 نقاط)

« إن اللجنة الثورية حلّت نفسها بنفسها قبل بضعة أيام من انعقاد المؤتمر الثّاني الذي نظّمه **المصاليون** ... لأنّـــها فقدت علّة وجودها لعدم تمكنها من تحقيق الوحدة والمصالحة بين جناحي الحركـــة المتنـــازعين... وأنّـــها انتهت بـــميلاد لجنة الخمسة، لأن **اللّجنة الثّورية** كانت تضم في صفوفـــها بعض المركـــزيين، بينمـــا **لجنة الخمسة** كانت مكونة فقط من قدماء **المنظمة الخاصة**، أو الذين يطلق عليهم العسكريون»

الكتاب المدرسي/السنة الثالثة ثانوي/التاريخ/ص167.

1. اشرح ما تحته خط في النص.
2. عرّف بالشخصيات التالية:

مصالي الحاج – محمد بلوزداد – شارل دغول – عبان رمضان.

3. أكمل الجدول التالي المتعلق بالجزائر:

التاريخ	الحدث
.....	ميلاد حركة الانتصار للحريات الديمقراطية
15 فيفري 1947	.....
.....	تأسيس اللجنة الثورية للوحدة والعمل
23 أكتوبر 1954	.....

4. على خريطة الجزائر المرفقة، أسند الولايات الثورية لقادتها حسب تقسيم نوفمبر 1954.

الجزء الثاني: (04 نقاط)

أصبحت الحرب الشاملة مستحيلة في زمن امتلاك القوى العظمى قدرات نووية لا تقهر. فالسّلم العالمي يتطلب عيش الجميع في تفاهم، وحل الخلافات بواسطة التحكيم العادل والسلمي.

المطلوب: انطلاقا من الفقرة، واعتمادا على ما درست، اكتب مقالا تاريخيا تبرز فيه:

1. مظاهر توتّر العلاقات بين القوى العظمى في كل من أوربا و آسيا بين 1948-1961.
2. عوامل التحوّل في العلاقات بين القوتين.

الجغرافـــيا

الجزء الأول: (06 نقاط)

« قدّم البنك العالمي للبلدان النّامية خلال الثمانينات الدعم المالي في صيغة **قروض** بعـد مـصادقة **صندوق النقد الدولي**... ودُعيت هذه البلدان إلى تطبيق **التّبادل الحر** في الميدان التجاري، واعتُبر تحريـر تنقل **رؤوس الأموال** وتخفيف التّقنين من الشّروط التي تضمن تحقيق النمو.»

موريس دوروسي، عولمة الاقتصاد 2005، ص 178

1. اشرح ما تحته خط في النص.
2. الجدول التالي يمثل تطور مؤشرات الدَّيْن الخارجي ببلدان الجنوب من 1980 إلى 2005.

السنوات / المؤشر	1980	1990	2000	2005
القيمة الإجمالية للدَّين الخارجي (بالمليار دولار)	540	1832	1773	2073
القيمة الإجمالية لخدمة الدَّين (بالمليار دولار)	90	150	286	370

المصدر: كتاب الجغرافيا، حسن طياشي وآخرون، ص 77

أ- مثّل معطيات الجدول بمنحنيين بيانيين معتمدا المقياس التالي: 1 سم ← 200 مليار دولار

1 سم ← 5 سنوات

ب- علّق على الجدول.

3. على خريطة العالم المرفقة، وقِّع ثلاث دول مصدّرة للبترول وثلاث دول مستوردة له.

الجزء الثاني:(04 نقاط)

تمتلك الولايات المتحدة الأمريكية مجالا جغرافيا شاسعا وزاخرا بالموارد الطبيعية، إلا أنّها تواجه صعوبات في تناقص مخزونـــها من المعادن والمحروقات، فتضطر إلى استيراد كميات كبيرة منها لتغطية حاجيـــات التّصنيع المتزايد.

المطلوب: انطلاقا من الفقرة، واعتمادا على ما درست، اكتب مقالا جغرافيا تبرز فيه:

1. الدعائم الطبيعية لقوة الاقتصاد الأمريكي.
2. المشاكل التي تواجه الاقتصاد الأمريكي.

الموضـــوع الثانـــي

التاريـــخ

الجزء الأول: (06 نقاط)

« تجرّأت شعوب المستعمرات على المطالبة بـــ**الاستقلال** و الحرّية و القيام بـــ**الثّورات التحرّرية** بعد تيقنها من إمكانية النّصر، وكان لوقوف الإتحاد السوفيتي و الكتلة الشرقية إلى جانب الـــشعوب المـــستعمرة دورا بارزا في نيلها الحرّية والاستقلال، لاسيّما وأن هذا الدّعم جاء في المجال العـــسكري و الاقتـــصادي والسياسي وفي هيئة الأمم المتحدة... حيث كانت الولايات المتحدة الأمريكية تدّعي احترام حقوق الـــشّعوب في **تقرير مصيرها** أو في **حكمها الذاتي** ».

حسان علي حلاق، الوجيز في تاريخ العالم المعاصر، ص 106

1. اشرح ما تحته خط في النص.
2. عرِّف بالشخصيات الآتية:

هوشي منه – المهاتـــما غاندي – فيدال كاسترو – جواهر لال نهرو.

3. أكمل الجدول الآتي:

الحدث	تاريخه
استقلال الهند	.....
مؤتمر باندونغ	.....
معركة ديان بيان فو	.....
تأسيس المنظمة الفرانكفونية	.....

4. على خريطة العالم المرفقة، حدِّد بلدان الحركات التحرّرية الآتية: الفيتنام – الهند – الجزائر.

الجزء الثاني: (04 نقاط)

اعتمدت الجمهورية الفرنسية الخامسة إستراتيجية متعددة الجوانب، فشلت أمام قوّة الثورة، وأرغمت على قبول مبدأ التفاوض.

المطلوب: انطلاقا من الفقرة، واعتمادا على ما درست، اكتب مقالا تاريخيا تبرز فيه:

1. الاستراتيجية العسكرية للجمهورية الخامسة تجاه الثورة.
2. دوافع فرنسا لقبول مبدأ التفاوض.

الجغرافيا

الجزء الأول: (06 نقاط)

« تبنّت **المجموعة الاقتصادية الأوروبية** التي تشكو **العجز الغذائي** السياسة الفلاحية المشتركة منذ 1962، وتهدف هذه السياسة إلى الرفع في **الإنتاجية** وتأمين مستوى عيش لائق للفلاحين وضمان التزود بالمنتجات الفلاحية الغذائية بأسعار مناسبة للمستهلكين... وارتبط نجاح هذه السياسة بتركز سوق مشتركة حقيقية تعتمد وحدة السوق عبر إلغاء **الحواجز الجمركية** وتقريب المواصفات الصحية والفنية للمنتجات، ووحدة الأسعار عبر آليات تعديل ،وأفضلية التعامل التجاري والتضامن المالي بين الدول الأعضاء.»

السياسة الفلاحية المشتركة، مصادر أوروبا، 2003

1. اشرح ما تحته خط في النص.
2. الجدول التالي يمثل نسب الاستثمار بين الاتحاد الأوروبي و بعض دول العالم (2001-2003)

الدول	الاستثمار الصادر	الاستثمار الوارد
الصين	% 0	% 12.1
اليابان	% 8.1	% 1.7
الولايات المتحدة الأمريكية	% 31.8	% 19.9

Investissements directs étrangers de l'union européenne en 2003. Euro state 2005

أ- مثّل معطيات الجدول بأعمدة بيانية بمقياس: 1 سم ← 05 % ، 1 سم ← عمود

ب- علّق على الرسم.

3. على خريطة العالم وقّع الأقطاب الاقتصادية الواردة في الجدول.

الجزء الثاني: (04 نقاط)

تُعتبر الشّراكة بين الجزائر والدول الأورومتوسطية إطارا للحوار والتعاون الثنائي وتبادل المنافع.

المطلوب: انطلاقا من الفقرة، واعتمادا على ما درست، اكتب مقالا جغرافيا تبرز فيه:

1. الخصائص الطبيعية والحضارية المشتركة بين الجزائر والدول الأورومتوسطية.
2. الآفاق المستقبلية للشراكة الجزائرية الأوروبية.

خريطة الجزائر

ينجز العمل على الخريطة وتعاد مع أوراق الإجابة

خريطة العالم

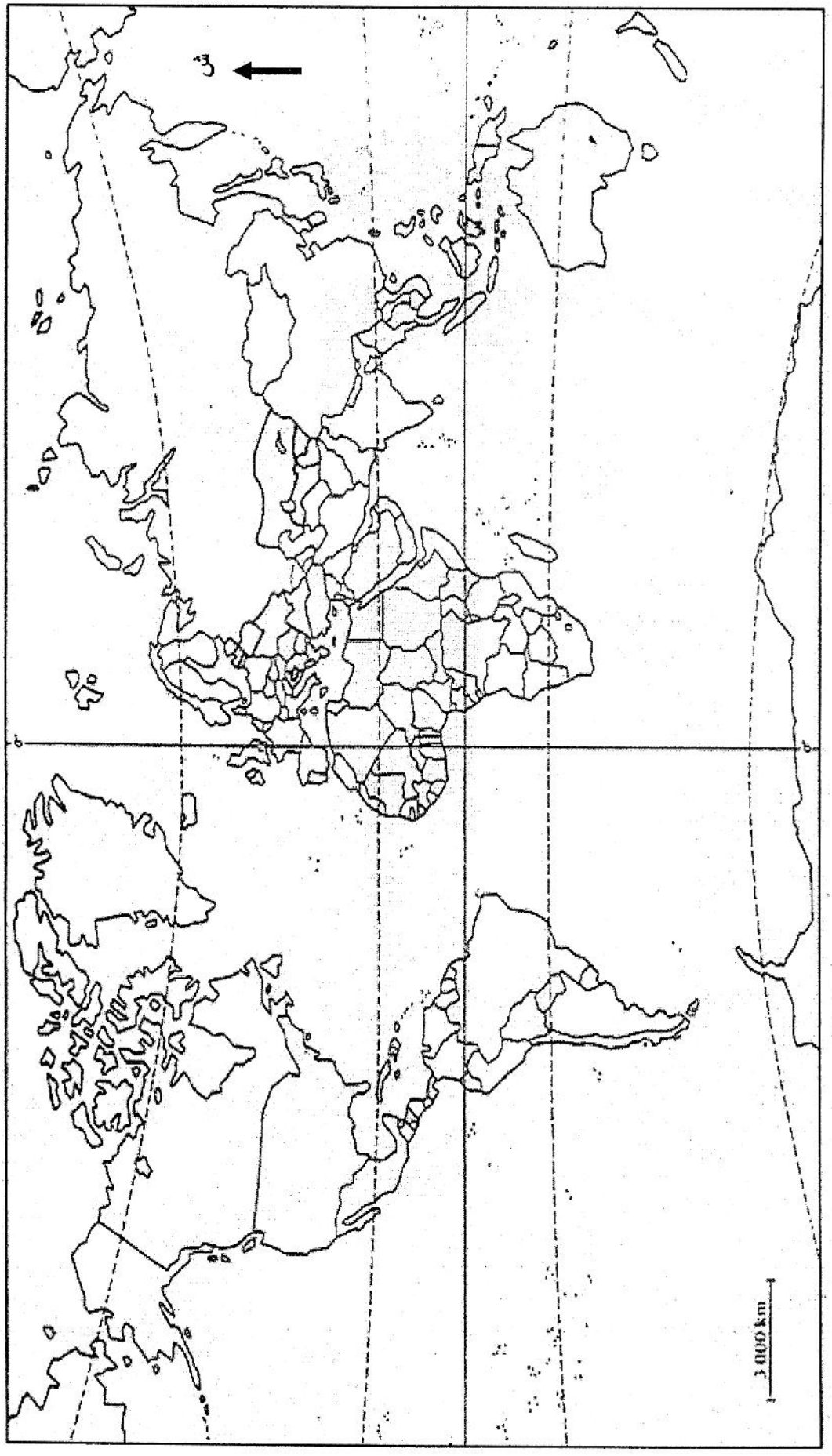

ينجز العمل المطلوب على الخريطة وتعاد مع أوراق الإجابة

خريطة العالم

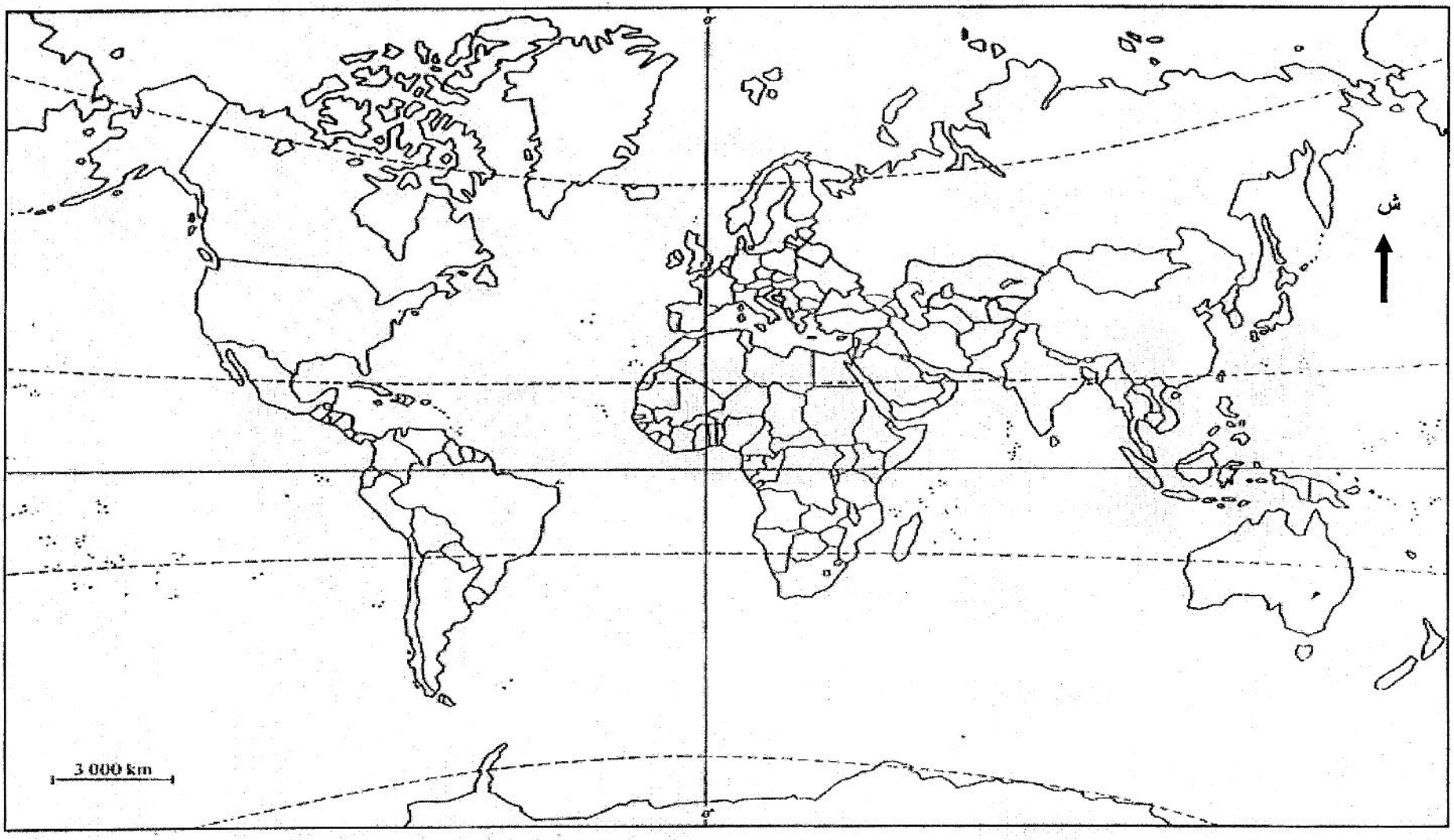

ينجز العمل المطلوب على الخريطة وتعاد مع أوراق الإجابة

محاور الموضوع	عناصر الإجابة (الموضوع الأول)	العلامة مجزأة	العلامة المجموع
	التاريخ **الجزء الأول:(06ن)** 1- المصطلحات: - المصاليون: أتباع مصالي الحاج من حركة الانتصار للحريات الديمقراطية أصحاب مبدأ القيادة الفردية. - اللجنة الثورية: تنظيم ثوري ظهر بتاريخ 23 مارس 1954 إثر أزمة حركة الانتصار للحريات الديمقراطية للتعجيل بتفجير الثورة. - لجنة الخمسة:لجنة منبثقة عن لجنة 22 كلفت بالاعداد والتحضير للثورة. - المنظمة الخاصة: الجناح العسكري لحركة الانتصار مكلف بالتحضير للثورة عن طريق جمع الأسلحة والتدريب. 2- الشخصيات: - مصالي الحاج: أحمد مصالي (16 ماي 1898-03 جوان 1974) أمين عام نجم شمال إفريقيا ثم حزب الشعب الجزائري 1937 فحركة الانتصار للحريات الديمقراطية 2 نوفمبر 1946. - محمد بلوزداد: (1924-1952) مناضل في حزب الشعب - أحد قيادي حركة الانتصار، أول رئيس للمنظمة الخاصة 47 ، توفي في 14 /1952/01. - شارل دوغول:(1890-1970) رئيس حكومة فرنسا، 1 جوان 1958 إلى 8 جانفي 1959 ثم رئيسا للجمهورية الفرنسية الخامسة 1959-1969 جيء به وبصلاحيات واسعة بهدف القضاء على الثورة التحريرية. - عبان رمضان:(1920-1957) مناضل بحركة الانتصار، أحد أعضاء 22، مساعد قائد الولاية الخامسة ومهندس مؤتمر الصومام. 3- تكملة الجدول: 4- على خريطة الجزائر قادة الولايات الثورية الخمس حسب تقسيم نوفمبر 1954.	0.50 0.50 0.50 0.50 0.50 0.50 0.25 0.50 0.25 × 4 5×0.25	06

التاريخ	الحدث
02 نوفمبر 1946	ميلاد حركة الانتصار للحريات الديمقراطية
15 فيفري 1947	المنظمة الخاصة
23 مارس 1954	تأسيس اللجنة الثورية للوحدة والعمل
23 أكتوبر 1954	الاجتماع الأخير لتحديد تاريخ تفجير الثورة

محاور الموضوع	عناصر الإجابة (الموضوع الأول)	العلامة مجزأة	العلامة المجموع
	الجزء الثاني:(04ن)		
المقدمة	الصراع الأيديولوجي وتوتر العلاقات بين الشرق والغرب (أوربا وآسيا) .	0.5	
العرض	1 - مظاهر التوتر في العلاقات بين القوى العظمى فى أوربا وآسيا بين 48 - 61: أ- في أوربا: * أزمة برلين I 1948 و II 1961 * أزمة بولونيا1956 ب- في آسيا: * حرب الهند الصينية 54/46. * أزمة كوريا 53/50. 2 - عوامل التحول في العلاقات بين القوتين. * نمو القوة التدميرية للقوتين * مجيئ قيادة معتدلة. * التخوف من تحول الأزمات إلى مواجهة حقيقية. * ضغط الرأي العام العالمي (حركة عدم الانحياز)	0.5 0.25 0.25 0.5 0.5 0.25 0.5 0.25	04
الخاتمة	الانتقال من أسلوب المجابهة إلى أسلوب الاحتواء جنب العالم حرب عالمية ثالثة مدمرة.	0.5	

57

محاور الموضوع	عناصر الإجابة	العلامة مجزأة	العلامة المجموع
	الجزء الأول: (06ن) 1- شرح المصطلحات: - القروض: هي أموال ممنوحة من طرف الهيئات والمؤسسات المالية، قصيرة متوسطة وطويلة المدى مقرونة بفوائد. - صندوق النقد الدولي:مؤسسة مالية دولية تأسس إثر اتفاقية بروتن وودز 1944 لتنظيم العلاقات المالية العالمية. - التبادل الحر: مبدأ من مبادئ التجارة العالمية، يهدف إلى تحرير المبادلات التجارية. - رؤوس الأموال: هي الموارد المختلفة التي يمكن استخدامها في العملية الإنتاجية لغرض تحسين إنتاجية العمل. 2- أ/ التمثيل البياني: * العنوان: * المقياس: * الانجاز: ب/التعليق: تصاعد قيمة الديون لبلدان الجنوب بشكل مذهل حيث زاد بأربعة أضعافه. - تنامي خدمة الدين حيث قاربت سنة 2005 قيمة الدين لسنة 1980. 3- الخريطة: توقيع ثلاث دول مصدرة وثلاث مستوردة للبترول.	0.5 0.5 0.5 0.5 0.25 0.25 2×0.50 0.50 0.50 6×0.25	06
المقدمة	الجزء الثاني: (04ن) تعد الو.م.أ أول قوة اقتصادية في العالم مما مكنها من قيادة العالم على جميع الأصعدة وذلك بفضل ما تتوفر عليه من دعائم طبيعية.	0.5	04
العرض	**1- الدعائم الطبيعية لقوة الاقتصاد الأمريكي:** * شساعة المساحة (9.3 م/ كم^2) * تنوع التضاريس والمناخ * وفرة الثروات الطبيعية (طاقة –معادن –خامات زراعية) *الإشراف على أهم المسطحات المائية و توفرها على شبكة مائية هائلة. * توفرها على موانئ طبيعية بالواجهة الأطلسية. * الموقع الفلكي (العروض الحارة والباردة) **2- المشاكل التي تواجه الاقتصاد الأمريكي :** * تكدس الإنتاج الزراعي والصناعي وضخامته. * التبعية فيما يخص المواد الأولية لدول العالم المتخلف. * المنافسة الخارجية وتقلص أسواقها في العالم. * عجز الميزان التجاري وميزان المدفوعات . * الرسوم الجمركية المفروضة على السلع الأمريكية. * أزمة البطالة التي قدرت سنة 2004 ب :4.5%.	6×0.25 6×0.25	
الخاتمة	تبقى الإمكانات الطبيعية للو.م.أ مصدر قوتها رغم ما يتعرض له اقتصادها من هزات اليوم.	0.5	

58

محاور الموضوع	عناصر الإجابة	العلامة	
		مجزأة	المجموع

خريطة الجزائر

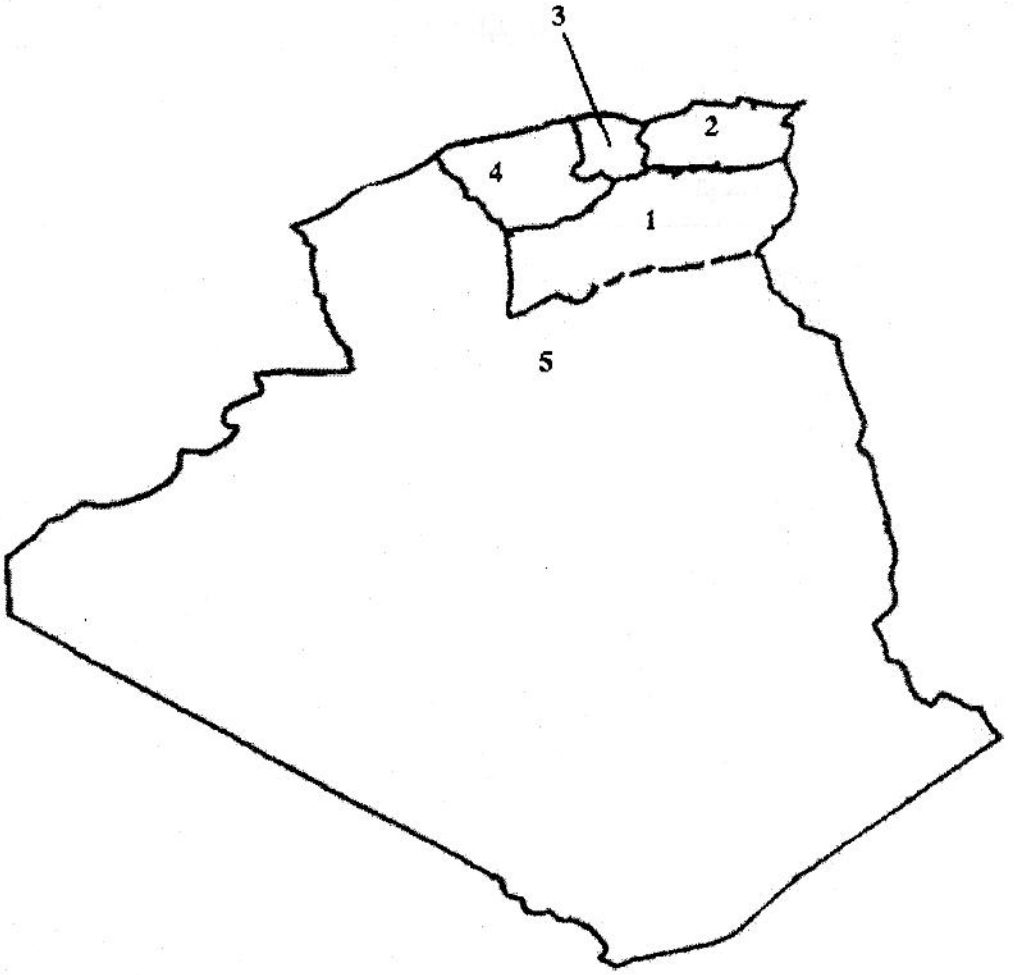

1- مصطفى بن بولعيد
2- ديدوش مراد
3- كريم بلقاسم
4- رابح بيطاط
5- محمد العربي بن مهيدي

تطور مؤشرات الدَّيْن الخارجي لبلدان الجنوب من 1980 إلى 2005

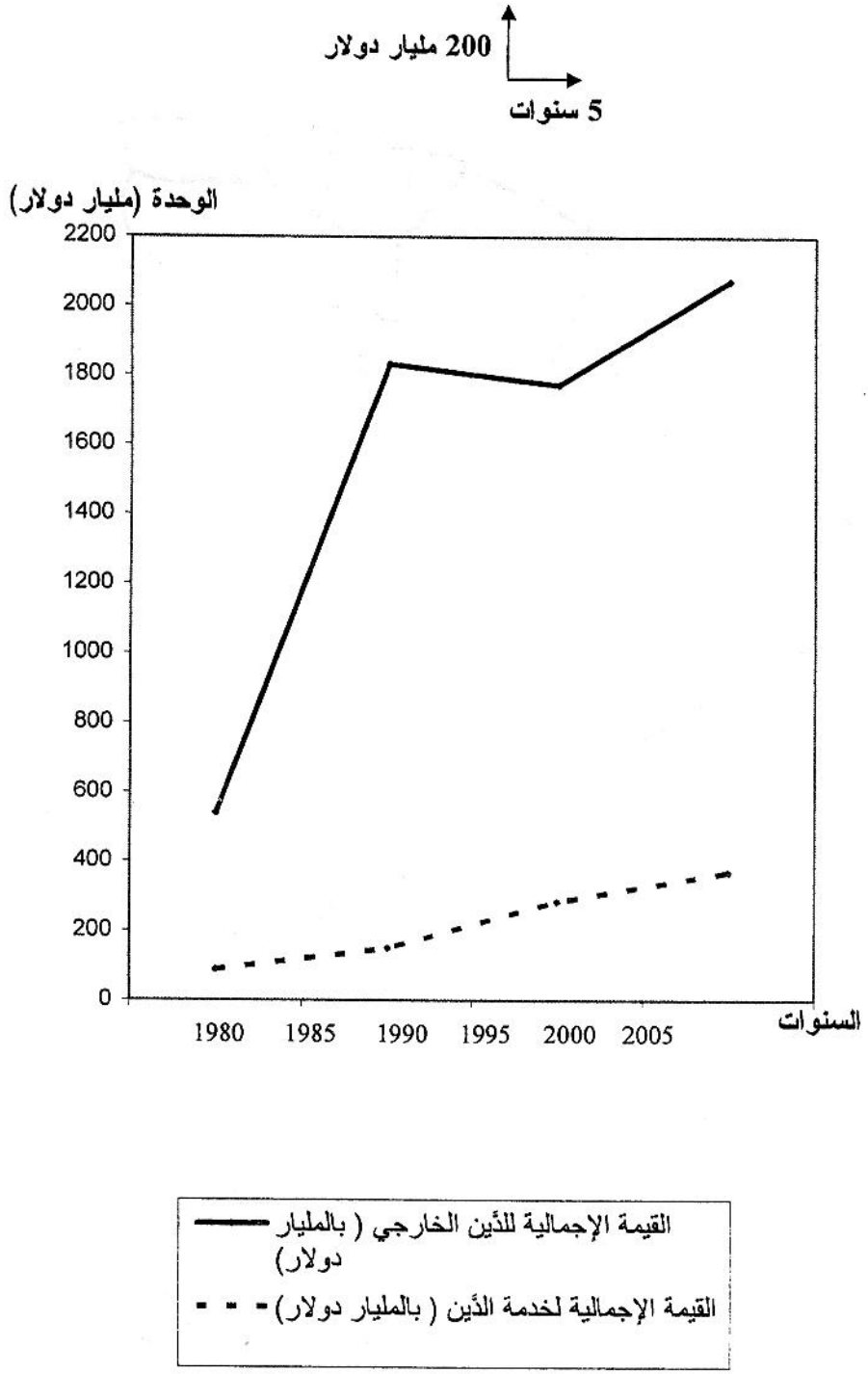

60

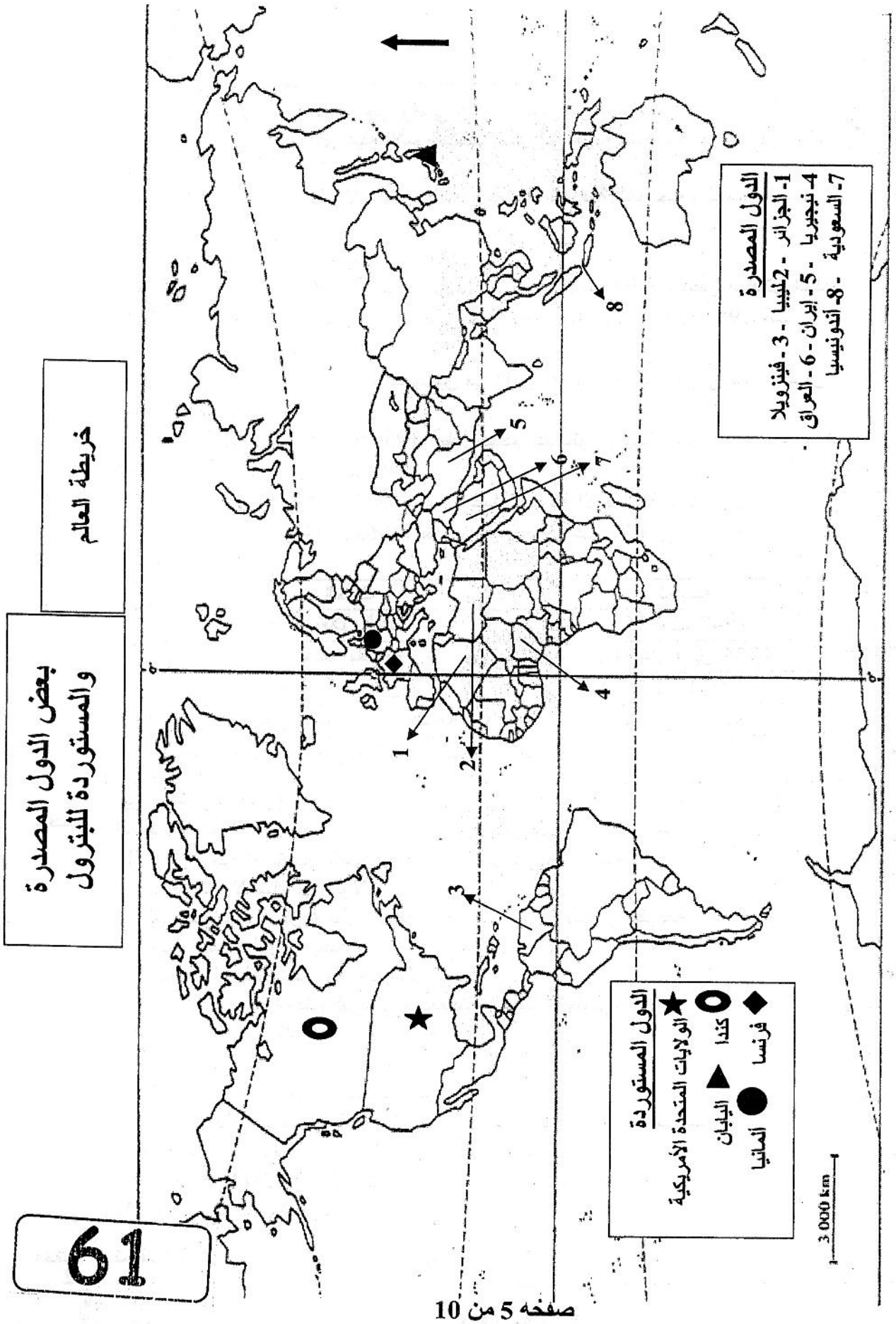
خريطة العالم
بعض الدول المصدرة والمستوردة للبترول
الدول المصدرة
1- الجزائر - 2-ليبيا - 3- فنزويلا
4- نيجيريا - 5- إيران - 6- العراق
7- السعودية - 8- أندونيسيا
الدول المستوردة
الولايات المتحدة الأمريكية
كندا
فرنسا
اليابان
ألمانيا
3 000 km

61

محاور الموضوع	عناصر الإجابة (الموضوع الثاني)	العلامة مجزأة	العلامة المجموع
	التاريخ: **الجزء الأول:**(06ن) 1- المصطلحات: - الاستقلال: تحقيق الحرية واستعادة السيادة الوطنية الكاملة. - الثورات التحررية: رد فعل شعبي وطني هدفه التخلص من الاستعمار بمختلف أشكاله. - تقرير المصير: أحد مبادئ هيئة الأمم المتحدة يدعو إلى حرية الشعوب الضعيفة في اختيار مصيرها بنفسها. - الحكم الذاتي: تمتع الدولة بالاستقلال الداخلي مع بقاء السياسة الخارجية والحماية العسكرية في يد المستعمر. 2- الشخصيات: - هوشي منه: 1894-1969 مؤسس الحزب الشيوعي الفتنامي 1930. أعلن استقلال الفتنام الشمالي سبتمبر1945. خاض حرب التحرير ضد الوجود الفرنسي 1946-1954وضد الولايات المتحدة بداية من 1964. - المهاتما غاندي: أحد كبار القادة السياسيين في القرن 20 م ساهم في تحرير الهند،مهندس فلسفة اللاعنف. - فيدال كاسترو: رئيس كوبا منذ1959، أطاح بحكم الديكتاتور باتيستا مقيما نظاما شيوعيا في الجزيرة .عرفت فترته أزمةكوبا1962. - جواهر لال نهرو: (1889-1964)، من زعماء الحركة الاستقلالية للهند، أول رئيس وزراء الهند المستقلة (1947-1964) أحد مؤسسي حركة عدم الانحياز. 3- تكملة الجدول: 4- خريطة الحركات التحررية التالية: الفيتنام – الهند – الجزائر.	0.50 0.50 0.50 0.50 0.5 0.5 0.25 0.25 4×0.25 3×0.5	06
المقدمة	**الجزء الثاني:**(04ن) الجمهورية الفرنسية الخامسة بين سياسة القضاء على الثورة والقبول بمبدأ التفاوض.	0.5	04
العرض	1- إستراتيجية الاستعمار العسكرية في عهد الجمهورية الخامسة: * سد قنوات الاتصال بين الولايات . * القيام بعمليات عسكرية مثل: عملية التاج –المنظار –الأحجار الكريمة. * تجنيد العملاء لزرع البلبلة. * استعمال الأسلحة المحرمة دوليا مثل النابالم. * زيادة عدد وعدة الجيش الفرنسي واستعانته بالحلف الاطلسي. *عزل الثورة و إنشاء المناطق المحرمة. 2- دوافع فرنسا لقبول مبدأ التفاوض: * قوة وانتصارات الثورة عسكريا وسياسيا * تعذر الانتصار العسكري للجيش الفرنسي وارتفاع نفقات الخزينة الفرنسية. * ضغوط الرأي العام العالمي والداخلي على الحكومة الفرنسية. * مظاهرات 1960/12/11 والتفاف الشعب الجزائري حول الثورة. * الخسائر المادية والبشرية لفرنسا.	6×0.25 0.50 0.25 0.25 0.25 0.25	
الخاتمة	تحطم استراتيجية الجمهورية الخامسة أمام إصرار الثورة على الانتصار.	0.5	

محاور الموضوع	عناصر الإجابة	العلامة مجزأة	العلامة المجموع
	الجغرافيا **الجزء الأول:** (06 ن) 1-شرح المصطلحات: - المجموعة الاقتصادية الأوروبية: تكتل أوروبي ظهر في 25 مارس 1957 وفق اتفاقية روما من طرف ست دول :هولندة ،بلجيكا ،لكسمبورغ،فرنسا،ألمانيا الغربية،ايطاليا - العجز الغذائي: عدم قدرة الدول على توفير حاجيات سكانها من إنتاجها المحلي ولجوئها إلى الاستيراد - الإنتاجية:- مردود الهكتار الواحد من المنتجات الفلاحية، أو مردود العامل في المصانع -الحواجز الجمركية: الرسوم والضرائب المفروضة على السلع والأشخاص أثناء حركة التنقل والاستيراد والتصدير. 2- أ/ التمثيل البياني: العنوان: المفتاح: الانجاز: ب/ التعليق: * ضخامة الاستثمارات الأمريكية. * عدم وجود استثمارات صادرة من الصين * استقطاب الصين للاستثمارات. * ارتفاع الاستثمار الصادر لليابان. 3- التوقيع على الخريطة الأقطاب الاقتصادية الكبرى.	0.5 0.5 0.5 0.5 0.25 0.25 2×0.5 0.25 0.25 0.25 0.25 3×0.5	06
المقدمة العرض الخاتمة	**الجزء الثاني:** (04ن) موقع الجزائر وانتمائها لمنطقة البحر الأبيض المتوسط اكسبها الكثير من الخصائص المشتركة مع باقي دول المنطقة 1- الخصائص الطبيعية والحضارية المشتركة بين الجزائر والاتحاد الأوروبي: أ/ الطبيعية : تتشابه من حيث: * الإشراف على البحر الأبيض المتوسط . * مناخ و تضاريس الدول المتوسطية. * بعض المنتجات الزراعية(أشجار الزيتون و الحمضيات والكروم). * المشاكل الطبيعية(الفيضانات- الهزات الزلزالية) ب/ الحضارية: * أثرت وتأثرت بالحضارات (الرومانية - العربية الإسلامية -الفينيقية- الإغريقية) * التاريخ المشترك مستعمِر ومستعمَر(حملات استعمارية من الشمال نحو الجنوب) **2- الأفاق المستقبلية:** * تجسيد الشراكة الاورو متوسطية على أسس عادلة . * إرساء وإثراء التعاون الثقافي والعلمي بين الطرفين * تشجيع الاستثمارات الأوربية في الجزائر * التعاون الاقتصادي وتحويل رؤوس الأموال الخصائص الطبيعية والحضارية المشتركة تؤهل المنطقة للعب الأدوار الريادية في العالم	0.5 4×0.25 0.25 0.25 0.5 0.25 0.5 0.25 0.5	04

63

نسب الاستثمار بين الاتحاد الأوروبي و بعض دول العالم (2001-2003)

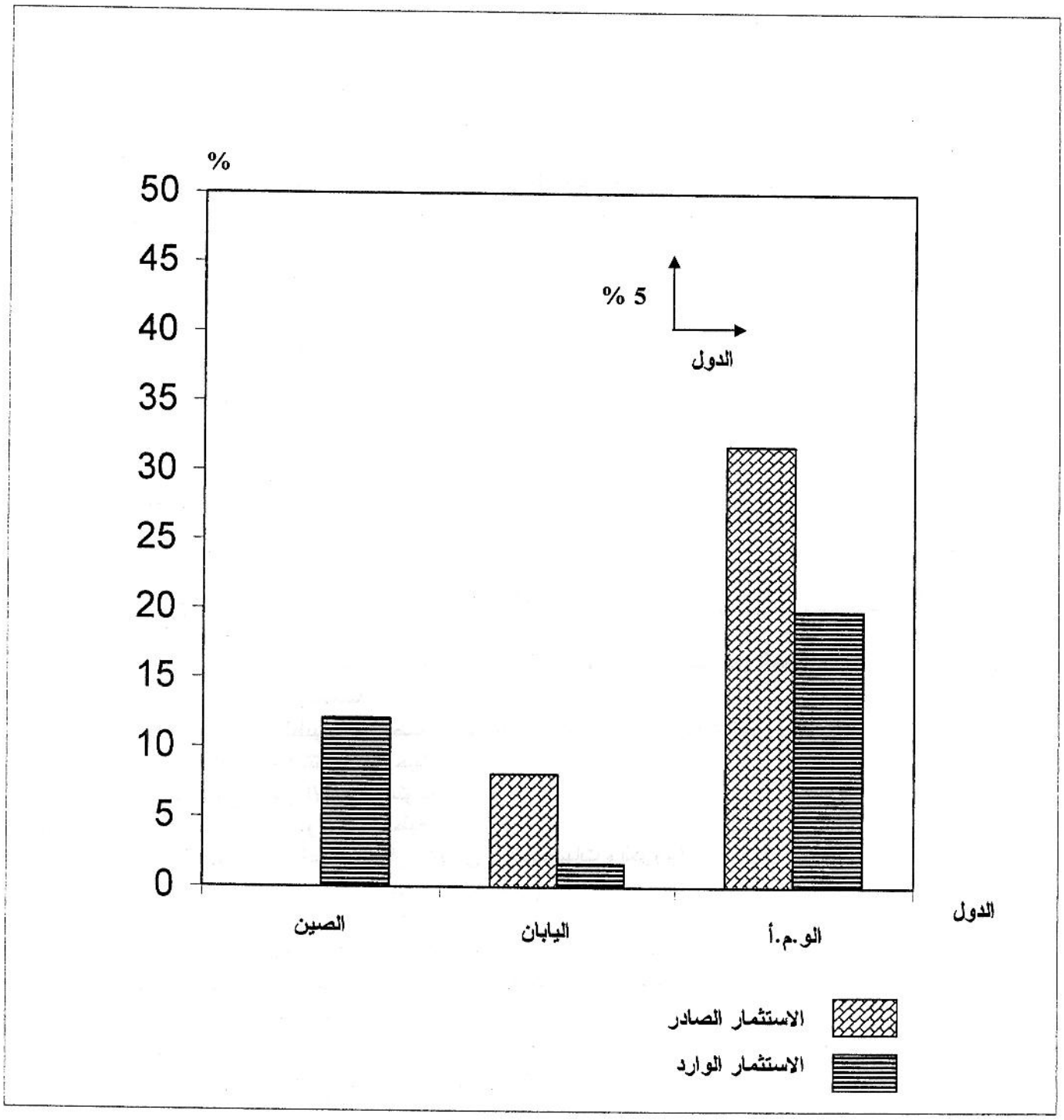

64

خريطة العالم

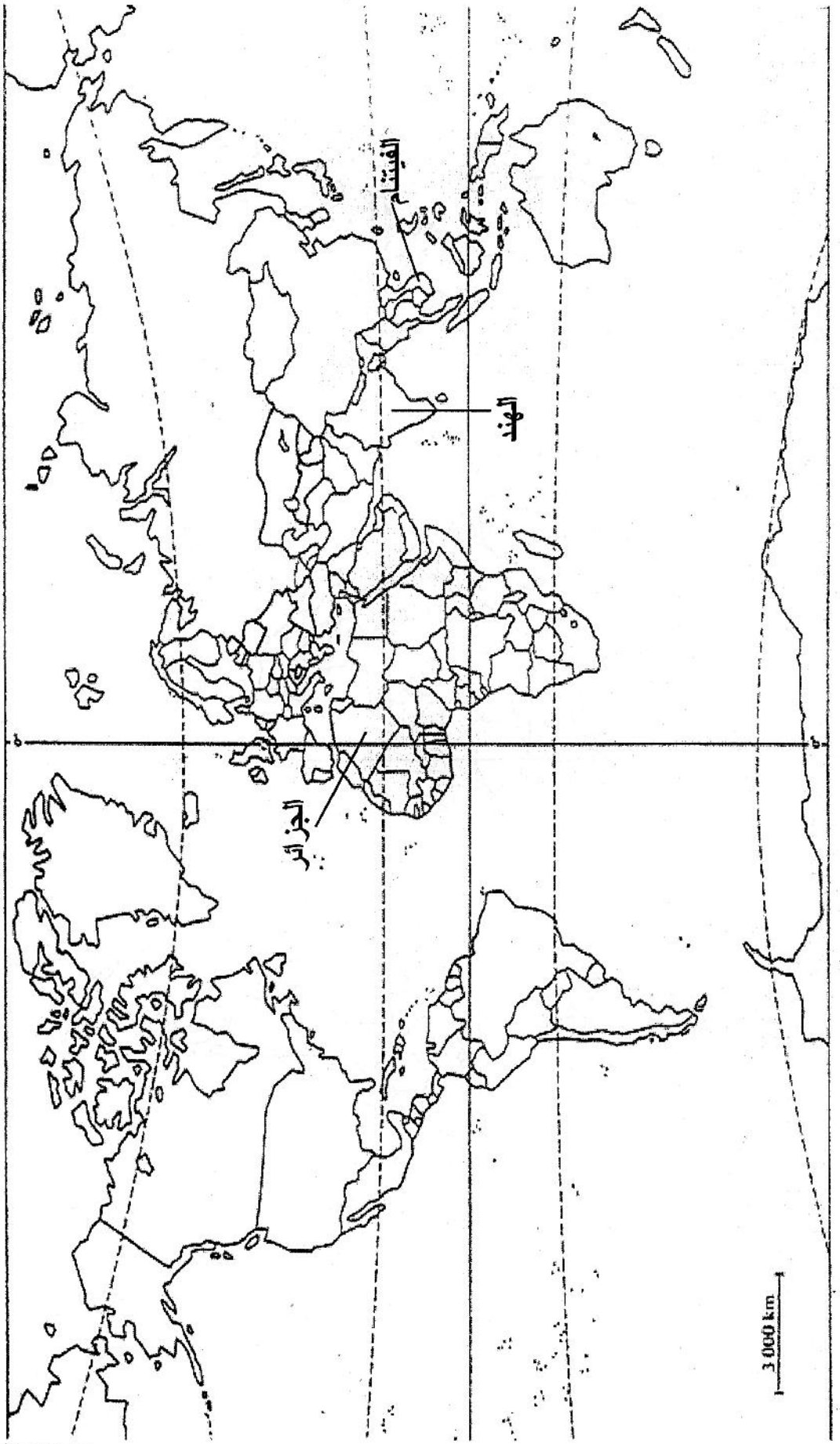

ينجز العمل المطلوب على الخريطة وتعاد مع أوراق الإجابة

65

خريطة العالم

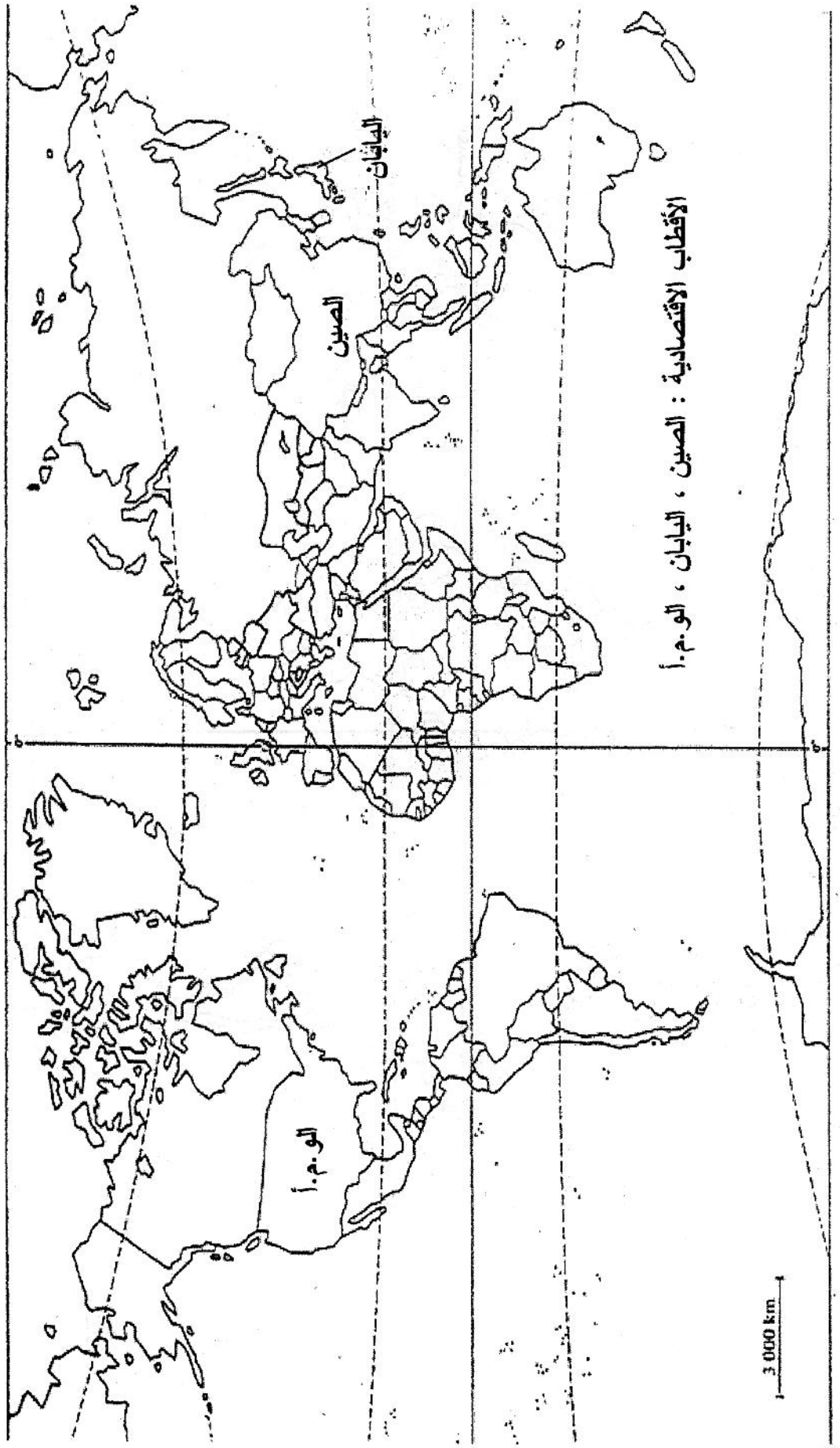

ينجز العمل المطلوب على الخريطة وتعاد مع أوراق الإجابة

66